2018年 5月試験
ファイナンシャル・プランニング技能検定

3級 実技試験

資産設計提案業務

実施日① ◆	年	月	日
実施日② ◆	年	月	日
実施日③ ◆	年	月	日
試験時間 ◆ 60分			

★ 注 意 事 項 ★

① 問題用紙は試験監督者の指示があるまで開けないでください。
② 試験問題は、試験用紙と解答用紙からなっています。解答はすべて解答用紙に記入してください。
③ 解答用紙にはあらかじめ受検番号、カナ氏名が印字されていますので、ご自身のものかを確認してから漢字氏名を記入してください。
④ 問題数は20問、解答はすべて三答択一式です。
⑤ 試験問題については、特に指示のない限り、法令基準日（１月・５月試験は前年10月1日、９月試験はその年の４月１日）現在において施行の法令等に基づいて解答してください。なお、東日本大震災の被災者等に対する各種特例等については考慮しないものとします。
⑥ 試験問題の内容に関する質問には一切お答えできません。
⑦ 問題用紙・解答用紙に印刷不明瞭や乱丁・落丁があった場合は、お申し出ください。
⑧ 解答用紙は試験終了後、回収しますので持ち帰らないでください。問題用紙はお持ち帰りください。
⑨ 計算機（電卓）は演算機能のみを有するものだけ使用できます。関数機能やプログラムの入力可能なものは使用できません。
⑩ 携帯電話やスマートフォンなどの通信機能を有する機器は電源を切ってカバン等へしまってください（マナーモードも不可）。
⑪ 机の上には受検票、本人確認書類、筆記用具（HBの鉛筆またはシャープペンシル、消しゴム）、計算機（電卓）以外のものは置かないでください。
⑫ 不正行為防止のため、試験監督者が持ち物の提示を求める場合があります。
⑬ 試験問題の音読は慎んでください。
⑭ 試験開始後、途中退室は一切できません。

FP3級ドットコム

【第１問】 下記の（問１）～（問２）について解答しなさい。

問１

ファイナンシャル・プランニング業務を行うに当たっては、関連業法を順守することが重要である。ファイナンシャル・プランナー（以下「ＦＰ」という）の行為に関する次の記述のうち、最も不適切なものはどれか。

1. 投資助言・代理業の登録をしていないＦＰが、顧客と投資顧問契約を締結し、当該契約に基づいて特定の上場株式の業績予想や投資判断について助言をした。
2. 生命保険募集人登録をしていないＦＰが、生命保険契約を検討している顧客のライフプランに基づき、必要保障額を具体的に試算した。
3. 税理士資格を有していないＦＰが、顧客から相続財産に係る相続税額の計算を依頼されたため、税理士と顧問契約を締結し、業務を委ねた。

問２

下記は、大垣家のキャッシュフロー表（一部抜粋）である。このキャッシュフロー表の（ア）～（ウ）に入る数値とその求め方として、最も不適切なものはどれか。なお、計算に当たっては、キャッシュフロー表中に記載の整数を使用し、計算結果は万円未満を四捨五入すること。

＜大垣家のキャッシュフロー表＞　（単位：万円）

経過年数			基準年	１年	２年	３年
西暦（年）			２０２３	２０２４	２０２５	２０２６
家族・年齢	大垣　雅治	本人	３１歳	３２歳	３３歳	３４歳
	いずみ	妻	３１歳	３２歳	３３歳	３４歳
	桃香	長女	２歳	３歳	４歳	５歳
ライフイベント					自動車の買替え	
		変動率				
収入	給与収入（夫）	１％	３４８			（　ア　）
	給与収入（妻）	１％				３３６
	収入合計	－		６８０		
支出	基本生活費	２％	２１８			
	住居費	－	１５３	１５３	１５３	１５３
	教育費	－	４０	３０	３０	４０
	保険料	－	４２	４２	４２	４２
	一時的支出	－			４００	
	その他支出	－	３０	３０	３０	３０
	支出合計	－	４８３	４７７	８８２	４９６
年間収支				（　イ　）	▲１９４	
金融資産残高		１％		５７４	（　ウ　）	５８９

※年齢および金融資産残高は各年１２月３１日現在のものとし、２０２３年を基準年とする。

※給与収入は可処分所得で記載している。

※記載されている数値は正しいものとする。

※問題作成の都合上、一部を空欄としている。

1．空欄（ア）：「３４８×（１＋０．０１）^{3}≒３５９」

2．空欄（イ）：「６８０－４７７＝２０３」

3．空欄（ウ）：「５７４－１９４＝３８０」

〈© FP3級ドットコム　無断転載を禁じます〉

【第２問】 下記の（問３）～（問６）について解答しなさい。

問３

下記＜資料＞は、金融市場の分類について示した図である。＜資料＞に関する次の記述のうち、誤っているものはどれか。

＜資料＞

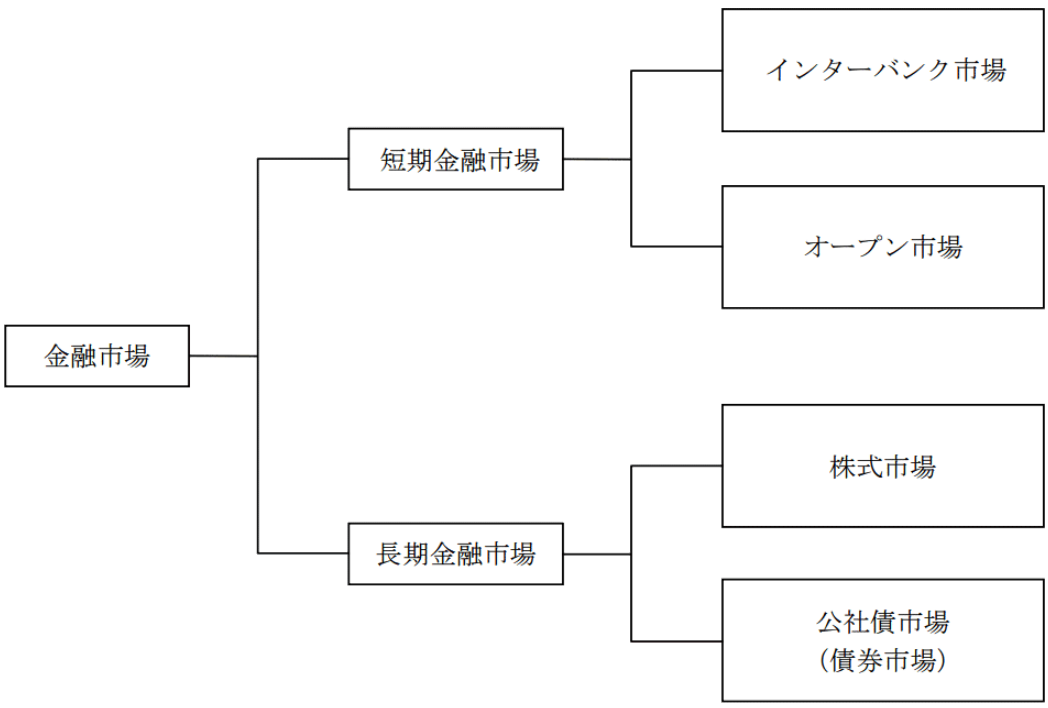

1. 短期金融市場と長期金融市場は、取引対象である金融商品の満期までの期間が３年以内か３年超かによって分類されている。
2. コール市場や手形市場は、インターバンク市場に分類される。
3. オープン市場は、一般の事業法人など金融機関以外でも参加できる市場である。

問４

下記＜資料＞に関する次の記述のうち、正しいものはどれか。

＜資料＞

東京第１部

４月16日
（月曜日）

銘柄	始値	高値	安値	終値	前日比	売買高
水産・農林						
•極洋	3755	3805	3740	3800	Δ40	147
•日水	572	575	570	573	Δ 1	20207
•マルハニチロ	3565	3635	3555	3630	Δ85	2205
カネコ種	1667	1667	1618	1625	Δ 9	43
•サカタタネ	3950	4045	3920	4045	Δ85	1689
•ホクト	2036	2045	2023	2043	Δ 9	482
ホクリヨウ	1304	1310	1294	1296	▲21	164

株式欄の見方

【株価】 円。ただし売買単位が１株（口）の銘柄は100円
【売買高】 100株。ただし売買単位が１株、10株、50株の銘柄は１株
【前日比】 Δ高 ▲安 0は変わらず ―は商い出来ず、前日比なし
〔配当落ち〕◊高 ◆安 ◊0は前日比変わらず ◊―は前日比なし。無配の場合も含む
〔新株落ち〕前日比較は新株落ち計算値比較。 □高 ■安 ⊟0は前日比変わらず ⊟―は前日比なし。ライツ・イシューに伴う新株予約権、株式無償割当の権利落ちを含む
〔株式併合または減資〕Ⓧ高 Ⓧ安 Ⓧ0は前日比変わらず Ⓧ―は前日比なし。併合・減資の影響を考慮した実質ベースで比較
ｶｲ買い気配、ｳﾘ売り気配、ケは名証の最終気配
【売買単位】 無印、a100株 B１株 C10株 D50株
K、k1000株（a、kは1000円以下で10銭、1000円超3000円以下で50銭刻み）
・貸借銘柄
(注)白抜き数字は年初来の最高値または最安値。ただし権利落ち日の週内は原則新値とせず、その後は権利落ち後の新高値・安値となる

（出所：日本経済新聞　２０１８年４月１７日朝刊　１９面、２２面）

1. 「日水」の株式の売買単位は、１，０００株単位である。
2. 「マルハニチロ」の４月１６日の始値は、前営業日の終値に比べて８５円高い。
3. 「ホクト」の４月１６日に売買が成立した株式数は、４８，２００株である。

〈© FP3級ドットコム　無断転載を禁じます〉

問５

下記<資料>に関する次の記述の空欄（ア）、（イ）にあてはまる数値の組み合わせとして、正しいものはどれか。

<資料>

年月【資本異動】		万株
84.11	無1：0.16	25,987
85.11	無1：0.13	29,948
86.11	無1：0.15	34,907
02. 3	交換	36,994
04.12	交換	36,994

東証	高値	安値
49~15	4430(00)	43(50)
16	1906(2)	1305(6)
17.1~8	1948(7)	1517(4)

	高値	安値	出来万株
17. 6	1867	1706	4,858
7	1948	1751	5,412
#8	1939	1791	3,880

【四半期進捗率】3期平均16.0%
今期27.6%(+11.6%)
【格付】J A+(安) R A(安)

【業種】民生用エレクトロニクス
時価総額順位 4／15社
【比較会社】7751 キヤノン, 4901 富士フHD, 6758 ソニー

【株式】3/31 400,878千株
単位 100株 貸借
時価総額 7,239億円 225
【財務】<◇17.6> 百万円
総資産 1,013,859
自己資本 549,071
自己資本比率 54.2%
資本金 65,476
利益剰余金 434,981
有利子負債 138,050
【指標等】 <連17.3>
ROE ▲1.4% 予7.5%
ROA ▲0.7% 予4.0%
調整1株益 —円
最高純益(08.3) 75,483
設備投資 322億 予300億
減価償却 328億 予310億
研究開発 636億 予645億
【キャッシュフロー】 億円
営業CF 948(1,052)
投資CF ▲381(▲808)
財務CF 155(▲181)
現金同等物 3,190(2,512)

【株主】(単)31,914名<17.3> 万株
日本マスター信託口 3,229(8.0)
日本トラスティ信託口 2,434(6.0)
明治安田生命保険 1,953(4.8)
日本トラスティ信託口9 836(2.0)
三菱東京UFJ銀行 737(1.8)
常陽銀行 680(1.6)
日本生命保険 670(1.6)
ノーザン・トラスト(AVFC)キルターンGEF 670(1.6)
日本トラスティ信託口5 640(1.5)
東京海上日動火災 604(1.5)
<外国>32.9% <浮動株> 5.3%
<投信> 8.6% <特定株>32.1%
【役員】(社)牛田一雄 (取)岡昌志 岡本恭幸 小田島匠 萩原哲 根岸秋男* (取監)本田隆晴 藤生孝一 ⇨欄外
【連結】ニコンイメージングジャパン, Nikon Inc.

7731 (株) ニコン

【特色】一眼レフカメラでキヤノンと双璧。半導体・液晶製造用露光装置で世界的。医療事業に注力。
【連結事業】精機33(21)、映像51(7)、インストルメンツ10(0)、メディカル3(▲22)、他3(10)
<17・3>【海外】83

【増額】一眼レフは台数減もエントリー旧機種減らし採算改善。FPD露光装置も中小型向け減。が、半導体露光装置はサービス収入増で黒字化幅が想定超。上期のみ上方修正の会社営業益保守的、構造改革費追加計上ない前提に増額。配当性向40%メド。

【細胞受託】再生医療や創薬向け細胞受託生産のため東京に施設建設。半導体の露光時に使う位置計測機器開発、12月出荷目標。

【決算】3月
【設立】1917.7
【上場】1949.5

【業績】(百万円)	売上高	営業利益	税前利益	純利益	1株益(円)	1株配(円)
連15. 3	857,782	43,412	46,368	18,364	46.3	32
連16. 3	822,915	36,701	42,870	22,192	56.0	18
連17. 3	748,891	50,979	54,322	▲7,107	▲17.9	16
◇18. 3予	703,000	51,000	53,000	41,000	103.5	16~41
◇19. 3予	710,000	53,000	55,000	42,000	106.0	16~42
中16. 9	343,779	23,335	25,643	17,737	44.8	12
中17. 9予	331,000	17,000	18,000	13,000	32.8	8
四16. 4- 6	169,352	14,931	17,088	11,486	29.0	
四17. 4- 6	170,324	12,419	13,142	8,891	22.4	
会18. 3予	700,000	45,000	47,000	34,000	(17.5.11発表)	

【配当】	配当金(円)
15. 3	22
15. 9	8
16. 3	10
16. 9	12
17. 3	4
17. 9予	8
18. 3予	8~33

予想配当利回り 0.89%
1株純資産(円)<◇17. 6> 1,386 (—)

【本社】108-6290東京都港区港南2-15-3 品川インターシティC棟 ☎03-6433-3600
【工場】大井, 横浜, 相模原, 熊谷, 水戸, 横須賀

【従業員】<17.6>連23,720名 単4,493名(44.5歳) 臣778万円
【証券】上東京 名(社)三菱Uモル, 日興 名三菱U信 名トーマツ
【銀行】三菱U, りそな, みずほ, 三菱U信, 三井住友信
【仕入先】—
【販売先】—

（出所：東洋経済新報社「会社四季報」２０１７年第４集）

- この企業の株を１単元（１単位）保有していた場合、２０１７年３月期における年間の配当金額（税引前）は（　ア　）円であったことが分かる。
- ２０１７年３月期における１株当たりの利益は（　イ　）円であったことが分かる。

1. （ア）１，６００　（イ）１６
2. （ア）１，６００　（イ）▲１７．９
3. （ア）１６　（イ）▲１７．９

問６

下記＜資料＞の上場不動産投資信託（Ｊ－ＲＥＩＴ）に関する次の記述の空欄（ア）、（イ）にあてはまる数値または語句の組み合わせとして、正しいものはどれか。なお、空欄（ア）の解答に当たっては、小数点以下第３位を四捨五入すること。

＜資料＞

	ＫＸ不動産投資法人	ＫＹ不動産投資法人
ＲＥＩＴ価格	２０３，０００円	３３２，０００円
１口当たり純資産	２３６，０００円	２８７，０００円
１口当たり分配金（年間予想）	８，０００円	９，０００円

- ＫＸ不動産投資法人の分配金の予想利回りは、（　ア　）％である。
- １口当たり純資産を用いて、ＫＸ不動産投資法人とＫＹ不動産投資法人のＲＥＩＴ価格を比較した場合、より割安であると考えられるのは、（　イ　）不動産投資法人である。

1. （ア）３．３９　（イ）ＫＹ
2. （ア）３．３９　（イ）ＫＸ
3. （ア）３．９４　（イ）ＫＸ

〈© FP3級ドットコム　無断転載を禁じます〉

【第３問】 下記の（問７）～（問８）について解答しなさい。

問７

建築基準法に従い、下記＜資料＞の土地に建築物を建築する場合、この土地に対する建築物の建築面積の最高限度として、正しいものはどれか。なお、記載のない条件については一切考慮しないこととする。

＜資料＞

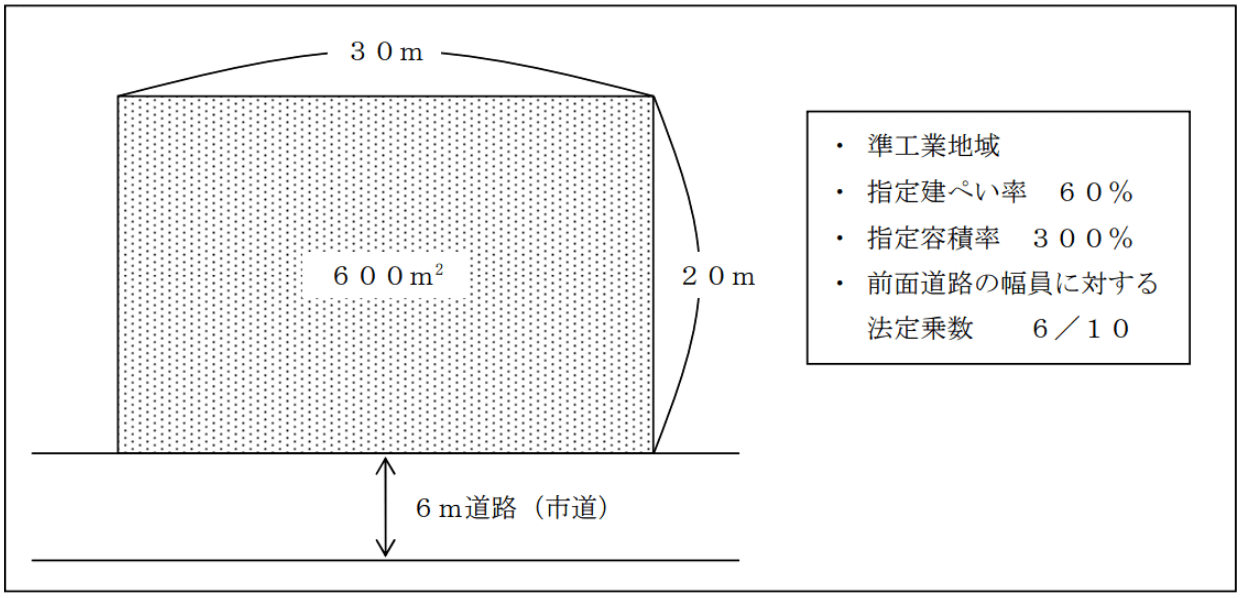

1. ６００×０．６×６／１０＝２１６（㎡）
2. ６００×０．６＝３６０（㎡）
3. ６００×３．０＝１，８００（㎡）

問８

建築基準法の用途制限に従い、第一種低層住居専用地域内の土地に建築物を建築する場合、建築可能なものとして、正しいものはどれか。なお、記載のない条件については一切考慮しないこととする。

1. ホテル
2. カラオケボックス
3. 診療所

【第４問】 下記の（問９）～（問１０）について解答しなさい。

問９

小坂健一さんが加入している生命保険（下記＜資料＞参照）の保障内容に関する次の記述の空欄（ア）にあてはまる金額として、正しいものはどれか。なお、保険契約は有効に継続しているものとし、健一さんはこれまでに＜資料＞の保険から保険金および給付金を一度も受け取っていないものとする。

＜資料＞

保険証券記号番号
○○△△××□□

定期保険特約付終身保険

保険契約者	小坂　健一　様		保険契約者印
被保険者	小坂　健一　様　契約年齢　３３歳 １９８２年４月２０日生　男性		小坂
受取人	（死亡保険金） 小坂　紀子　様（妻）	受取割合 １０割	

◇契約日（保険期間の始期）
２０１５年１１月２日

◇主契約の保険期間
終身

◇主契約の保険料払込期間
６０歳払込満了

◆ご契約内容

終身保険金額（主契約保険金額）	３００万円
定期保険特約保険金額	１，０００万円
特定疾病保障定期保険特約保険金額	３００万円
傷害特約保険金額	１００万円
災害入院特約［本人・妻型］入院１日目から	日額５，０００円
疾病入院特約［本人・妻型］入院１日目から	日額５，０００円
不慮の事故や疾病により所定の手術を受けた場合、手術の種類に応じて手術給付金（入院給付金日額の１０倍・２０倍・４０倍）を支払います。 ※妻の場合は、本人の給付金の６割の日額となります。	
成人病入院特約	入院１日目から　日額５，０００円
リビング・ニーズ特約	

◆お払い込みいただく合計保険料

毎回　××，×××円／月

［保険料払込方法（回数）］
団体月払い

◇社員配当金支払方法
利息をつけて積立て

◇特約の払込期間および保険期間
１０年

小坂健一さんが、２０２４年中に脳卒中で死亡（急死）した場合に支払われる死亡保険金は、合計（　ア　）である。

1.　１，３００万円
2.　１，６００万円
3.　１，７００万円

〈© FP3級ドットコム　無断転載を禁じます〉

問１０

個人賠償責任保険の補償の対象となるものとして、最も不適切なものはどれか。

1. 会社の業務で、書類を金融機関に届けるため自転車で走行中に、誤って歩行者と接触し、ケガをさせてしまった。
2. 友人たちとゴルフをプレー中に、誤ってゴルフボールを他のプレイヤーに当て、ケガをさせてしまった。
3. デパートで買い物中に、陳列されている商品を誤って落とし、壊してしまった。

【第５問】 下記の（問１１）～（問１２）について解答しなさい。

問１１

馬場淳司さんは、相続により８年前に取得し、現在居住している自宅の土地および建物を譲渡する予定である。譲渡に係る状況が下記＜資料＞のとおりである場合、所得税における課税長期譲渡所得の金額として、正しいものはどれか。なお、＜資料＞に記載のない条件については一切考慮しないこととする。

＜資料＞

- 取得費（合計）：８００万円
- 譲渡価額（合計）：５，０００万円
- 譲渡費用（合計）：１５０万円

※ 居住用財産を譲渡した場合の３，０００万円特別控除の特例の適用を受けるものとする。

※ 所得控除は考慮しないものとする。

1. ４，０５０万円
2. １，２００万円
3. １，０５０万円

〈© FP3級ドットコム　無断転載を禁じます〉

問１２

三上さんは、２０２４年１月に新築のマンションを取得し、新たに不動産賃貸業を開始した。取得したマンションの建物部分の情報は下記＜資料＞のとおりである。三上さんの２０２４年分の所得税における不動産所得の金額の計算上、必要経費に算入する減価償却費の金額（計算式を含む）として、正しいものはどれか。

＜資料＞

取得価額：３５，０００，０００円
取得年月：２０２４年１月
耐用年数：４７年
業務供用月数：１２ヵ月

＜耐用年数表（抜粋）＞

耐用年数	定額法の償却率	定率法の償却率
４７年	０．０２２	０．０４３

1. ３５，０００，０００円×０．９×０．０２２＝６９３，０００円
2. ３５，０００，０００円×０．０２２＝７７０，０００円
3. ３５，０００，０００円×０．０４３＝１，５０５，０００円

【第６問】 下記の（問１３）～（問１５）について解答しなさい。

問１３

２０２４年５月２日に相続が開始された平尾浩二さん（被相続人）の＜親族関係図＞が下記のとおりである場合、民法上の相続人および法定相続分の組み合わせとして、正しいものはどれか。なお、記載のない条件については一切考慮しないこととする。

＜親族関係図＞

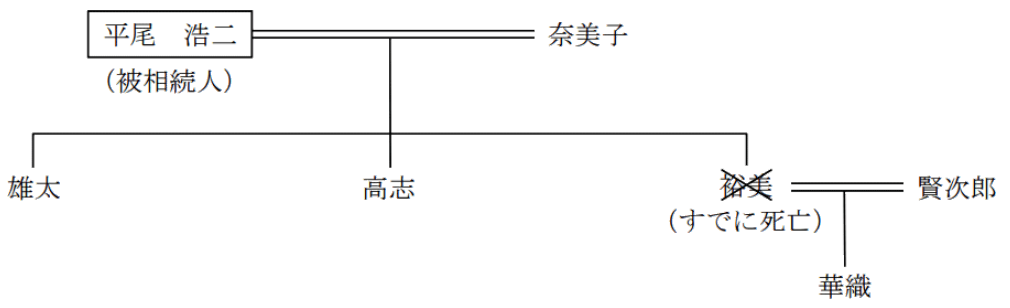

1．奈美子 ２／３　雄太 １／６　高志 １／６
2．奈美子 １／２　雄太 １／６　高志 １／６　華織 １／６
3．奈美子 １／２　雄太 １／８　高志 １／８　賢次郎 １／８　華織 １／８

問１４

成田友春さんは、家族のために遺言書を作成することを考えている。公正証書遺言に関する次の記述の空欄（ア）、（イ）にあてはまる語句の組み合わせとして、正しいものはどれか。

公正証書遺言は、遺言者が遺言内容を口述し、（　ア　）が筆記したうえで、遺言者・証人に読み聞かせ、または閲覧させて作成することを原則としている。また、公正証書遺言の作成に当たっては、（　イ　）以上の証人の立会いが必要とされる。

1．（ア）公証人　（イ）２人
2．（ア）裁判官　（イ）２人
3．（ア）裁判官　（イ）１人

〈© FP3級ドットコム　無断転載を禁じます〉

問１５

井上桂子さんは、夫から２０２４年５月に居住用不動産（財産評価額３，０００万円）の贈与を受けた。桂子さんは、この居住用不動産の贈与について、贈与税の配偶者控除の適用を受けることを検討している。桂子さんが贈与税の配偶者控除の適用を最高限度額まで受けた場合の２０２４年分の贈与税の配偶者控除および基礎控除後の課税価格として、正しいものはどれか。なお、贈与税の配偶者控除の適用を受けるための要件はすべて満たしているものとする。また、桂子さんは２０２４年中に、当該贈与以外の贈与を受けていないものとする。

1．８９０万円
2．１，０００万円
3．１，８９０万円

【第７問】 下記の（問１６）～（問２０）について解答しなさい。

《設　例》

西里利秋さんは株式会社ＴＡに勤務する会社員である。利秋さんは定年を４年後に控え、今後の生活設計について考えようと思い、ＦＰで税理士でもある長谷川さんに相談をした。なお、下記のデータはいずれも２０２４年４月１日現在のものである。

［家族構成（同居家族）］

氏名	続柄	生年月日	年齢	職業
西里　利秋	本人	１９６７年６月１０日	５６歳	会社員
優子	妻	１９７１年５月　５日	５２歳	専業主婦
穂香	長女	２００２年６月２３日	２１歳	大学４年生

［保有財産（時価）］

（単位：万円）

金融資産	
普通預金	５００
定期預金	１，７００
財形年金貯蓄	３００
個人向け国債	２５０
上場株式	４８０
生命保険（解約返戻金相当額）	３１０
不動産（自宅マンション）	２，５００
その他（動産等）	２５０

［負債残高］

住宅ローン（自宅マンション）：２５０万円（債務者は利秋さん、団体信用生命保険付き）

［定年退職時］

退職一時金として、勤務先より２，２００万円が支給される予定。

［その他］

上記以外については、各設問において特に指定のない限り一切考慮しないこととする。

〈© FP3級ドットコム　無断転載を禁じます〉

問１６

ＦＰの長谷川さんは、西里家の２０２４年４月１日現在のバランスシートを作成した。下表の空欄（ア）にあてはまる金額として、正しいものはどれか。なお、＜設例＞に記載のあるデータに基づいて解答することとし、＜設例＞に記載のないデータについては一切考慮しないこととする。

＜西里家のバランスシート＞　（単位：万円）

［資産］		［負債］	
金融資産			
普通預金	×××	住宅ローン	×××
定期預金	×××		
財形年金貯蓄	×××		
個人向け国債	×××	負債合計	×××
上場株式	×××		
生命保険（解約返戻金相当額）	×××		
不動産（自宅マンション）	×××	［純資産］	（　ア　）
その他（動産等）	×××		
資産合計	×××	負債・純資産合計	×××

1．５，４８０（万円）
2．５，７３０（万円）
3．６，０４０（万円）

問１７

利秋さんは、６０歳で定年を迎えた後、退職一時金の一部を老後の生活資金に充てることを考えている。仮に、退職一時金のうち１，５００万円を年利２．０％で複利運用しながら２０年間で均等に取り崩すこととした場合、毎年の生活資金に充てることができる金額として、正しいものはどれか。なお、下記＜資料＞の３つの係数の中から最も適切な係数を選択して計算し、円単位で解答すること。また、税金や記載のない事項については一切考慮しないこととする。

＜資料：係数早見表（年利２．０％）＞

	現価係数	資本回収係数	減債基金係数
２０年	０．６７３０	０．０６１２	０．０４１２

※記載されている数値は正しいものとする。

1．１，００９，５００円
2．９１８，０００円
3．６１８，０００円

問１８

利秋さんは、住宅ローンの繰上げ返済について、ＦＰの長谷川さんに質問をした。住宅ローンの繰上げ返済に関する長谷川さんの次の説明のうち、最も不適切なものはどれか。

1. 「返済期間を変えずに、毎月の返済額を減らす方法を『返済額軽減型』といいます。」
2. 「毎月の返済額を変えずに、返済期間を短縮する方法を『期間短縮型』といいます。」
3. 「最低返済額と繰上げ返済手数料は、金融機関を問わず一律となっています。」

問１９

利秋さんと優子さんが加入している生命保険は下記＜資料＞のとおりである。＜資料＞のうち、保険金受取人が死亡保険金を受け取った場合に所得税が課される契約として、正しいものはどれか。

＜資料＞

契約	保険契約者 （保険料負担者）	被保険者	死亡保険金 受取人	保険金額	保険期間
定期保険Ａ	利秋	利秋	優子	２，０００万円	６０歳まで
養老保険Ｂ	利秋	優子	利秋	１，０００万円	６０歳まで
終身保険Ｃ	利秋	優子	穂香	８００万円	終身

1. 定期保険Ａ
2. 養老保険Ｂ
3. 終身保険Ｃ

問２０

利秋さんは、通常６５歳から支給される老齢基礎年金を繰り上げて受給できることを知り、ＦＰの長谷川さんに質問をした。老齢基礎年金の繰上げ受給に関する次の記述のうち、最も不適切なものはどれか。なお、老齢基礎年金の受給要件は満たしているものとする。

1. 老齢基礎年金を繰上げ受給した場合の年金額は、繰上げ月数１月当たり０．７％の割合で減額される。
2. 老齢基礎年金を繰上げ受給した場合の年金額の減額は、一生涯続く。
3. 老齢基礎年金を６０歳から繰上げ受給した場合、原則として老齢厚生年金も同時に繰上げ受給しなければならない。

〈© FP3級ドットコム　無断転載を禁じます〉

《模範解答》

問番号	解答
問1	1
問2	3
問3	1
問4	3
問5	2
問6	3
問7	2
問8	3
問9	2
問10	1
問11	3
問12	2
問13	2
問14	1
問15	1
問16	3
問17	2
問18	3
問19	2
問20	1